クラス［　　］　番号［　　］　名前［　　］

電気用図記号

回路を図で簡単に表すときは，下のような記号を絵のかわりに使う。

これらの記号を（　　）という。また，これらの記号を使って表した回路の図を（　　）という。

	電池	スイッチ	豆電球
絵	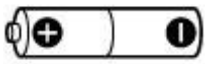	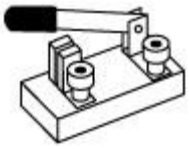	
記号			

下の記号の中からそれぞれに当てはまる記号をえらんで，上の表の中にかきましょう。

発展　回路図をかいてみよう！

○ 電池の＋極から－極へ向かう電流の通り道をたどり，順番に電気用図記号をかく。

下の右の図のわくの中に当てはまる電気用図記号をかきましょう。

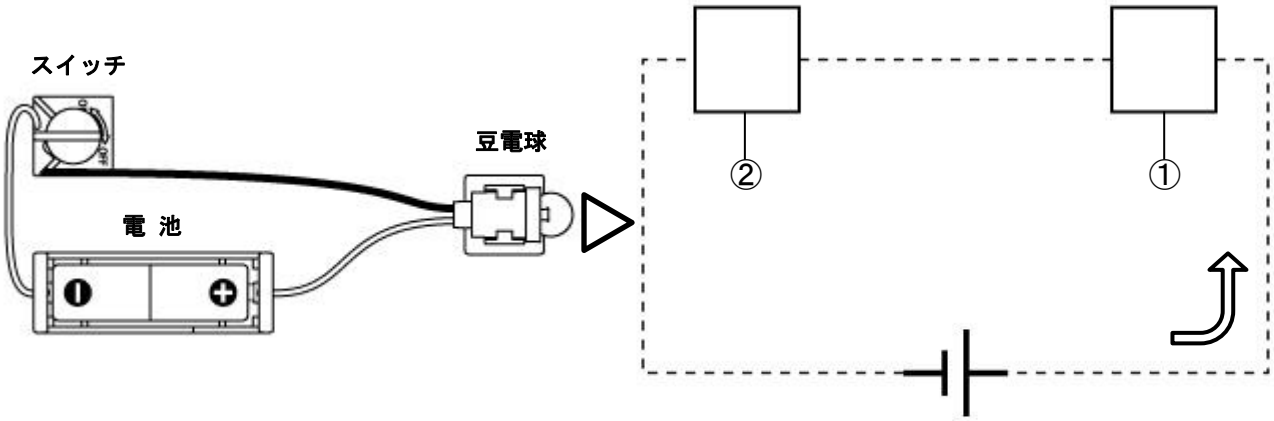

クラス［　　］　番号［　　］　名前［　　］

○ 電池の＋極からどう線でつないでいく。どう線は直線でかき，角は直角にかく。
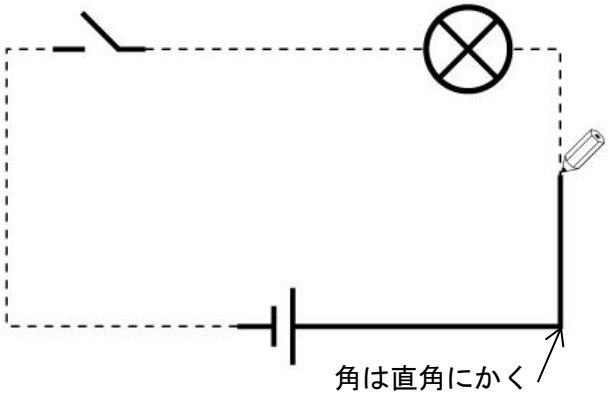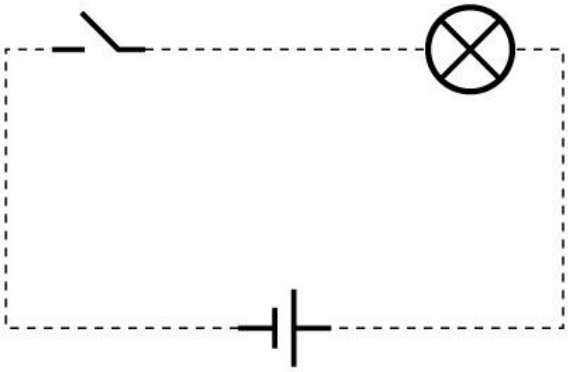
下の右の図に，点線に沿ってどう線をかきましょう。